Система оценивания проверочной работы

Правильный ответ на каждое из заданий 1.1, 1.2, 1.3, 2.1, 3.1, 3.2, 3.3, 3.4, 5.3, 6, 8.1 оценивается 1 баллом.

Полный правильный ответ на задания 4 и 9 оценивается 2 баллами. Если в ответе допущена одна ошибка (в том числе написана лишняя цифра или не написана одна необходимая цифра), выставляется 1 балл; если допущено две или более ошибки – 0 баллов.

Номер задания	Правильный ответ
4	235
6	3
9	262

1 На представленном ниже рисунке ученик зафиксировал в виде схемы один из процессов жизнедеятельности растений. Рассмотрите схему и ответьте на вопросы.

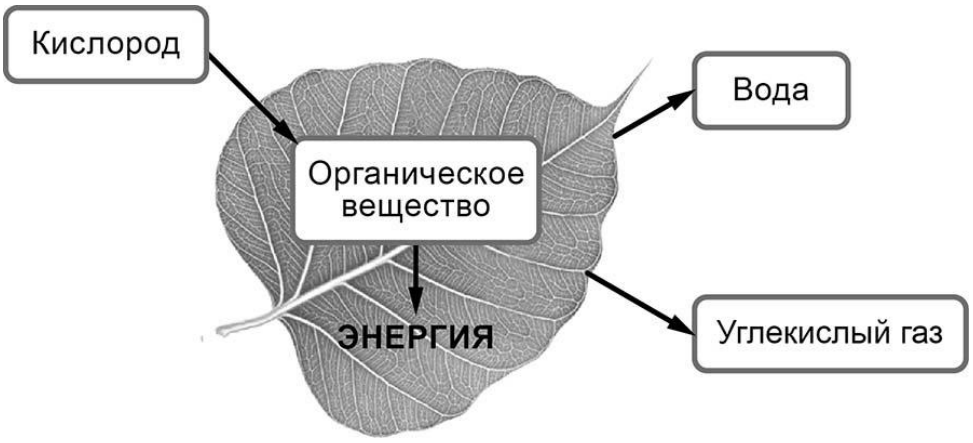

1.1. Как называют данный процесс?

Ответ. _____

1.2. С помощью какого метода удалось выяснить, что в ходе данного процесса выделяется углекислый газ?

Ответ. _____

1.3. Каково значение данного процесса в жизни растений?

Ответ. _____

1.1	дыхание
1.2	эксперимент
1.3	получение энергии

© 2020 Федеральная служба по надзору в сфере образования и науки

2 В приведённой ниже таблице между позициями первого и второго столбцов имеется взаимосвязь.

Целое	Часть
Образовательная ткань	Камбий
…	Ситовидные трубки

2.1. Какое понятие следует вписать на место пропуска в этой таблице?

1) механическая ткань
2) проводящая ткань
3) покровная ткань
4) запасающая ткань

Ответ:

2.2. Какую функцию выполняют устьица у растений?

Ответ. _____

2.1	2

2.2

Содержание верного ответа и указания к оцениванию (допускаются иные формулировки ответа, не искажающие его смысла)	**Баллы**
Правильный ответ должен содержать указание функции, например: газообмен, ИЛИ испарение, ИЛИ защита от перегрева	
Правильно указана функция	1
Ответ неправильный	0
Максимальный балл	*1*

© 2020 Федеральная служба по надзору в сфере образования и науки

3

3.1. Рассмотрите рисунок растительной клетки (рис. 1). Какая структура клетки обозначена на рисунке буквой А?

Ответ: _____

3.2. Каково значение этой структуры в жизнедеятельности клетки?

Ответ: _____

_____

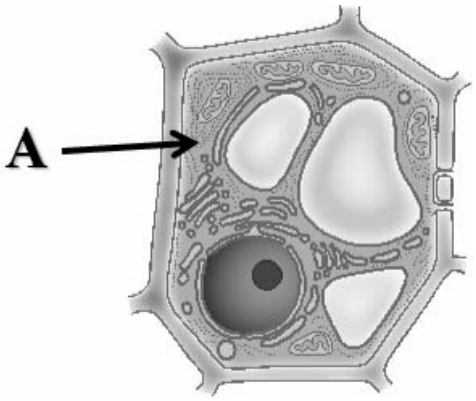

Рис. 1

3.3. Николай рассмотрел под микроскопом поперечный срез листа фикуса и сделал микрофотографию (рис. 2). Что он обозначил на фотографии цифрой 1?

Ответ: _____

3.4. Какие типы тканей образуют структуру, обозначенную цифрой 1?

Ответ: _____

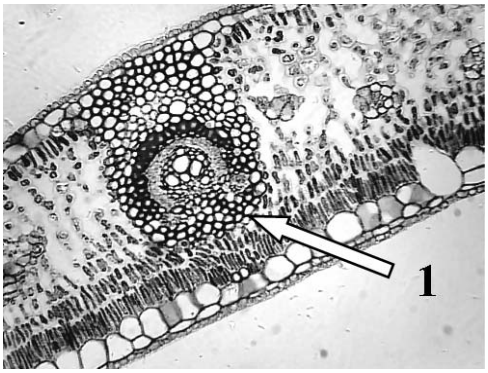

Рис. 2

3.1	цитоплазма
3.3	жилка / сосудисто-волокнистый пучок
3.4	проводящие и механические

3.2

Содержание верного ответа и указания к оцениванию (допускаются иные формулировки ответа, не искажающие его смысла)	**Баллы**
Правильный ответ должен содержать указание функции, например: перемещение веществ внутри клетки, ИЛИ среда для протекания реакций обмена веществ, ИЛИ место откладывания запасных питательных вещества	
Правильно указана функция	1
Ответ неправильный	0
Максимальный балл	*1*

© 2020 Федеральная служба по надзору в сфере образования и науки

5 Рассмотрите изображение листа и выполните задания.

5.1. Покажите стрелками и подпишите на рисунке *черешок, прилистники, листовую пластинку.*

5.2. Чем сложный лист отличается от простого?

Ответ: _____

_____

5.3. Как называется часть листа, которая соединяет его со стеблем?

Ответ: _____

© 2020 Федеральная служба по надзору в сфере образования и науки

5.1

Содержание верного ответа и указания по оцениванию	Баллы
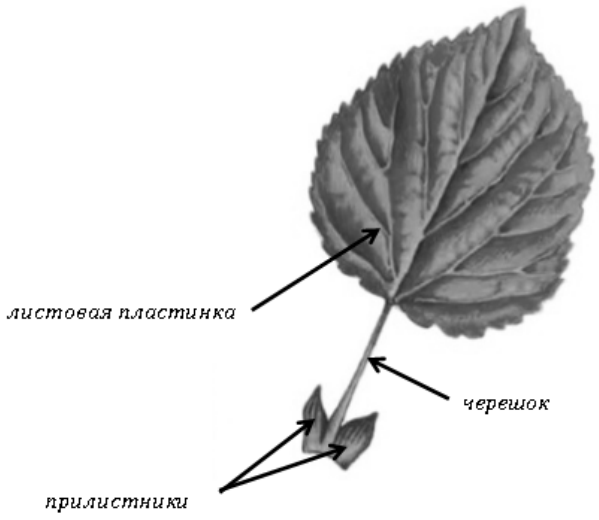	
Верно подписаны три части листа	2
Верно подписаны только две части листа	1
Верно подписана только одна любая часть листа. ИЛИ Ответ неправильный	0
Максимальный балл	*2*

5.2

Содержание верного ответа и указания к оцениванию (допускаются иные формулировки ответа, не искажающие его смысла)	**Баллы**
Правильный ответ должен содержать <u>объяснение</u>, например: у простого листа одна листовая пластинка, а у сложного две и более листовые пластинки на одном черешке	
Правильно приведено объяснение	1
Ответ неправильный	0
Максимальный балл	*1*

5.3	основание

© 2020 Федеральная служба по надзору в сфере образования и науки

7 Используя приведённую ниже таблицу, ответьте на вопросы.

Содержание минеральных веществ в овощных культурах, мг/100 г

Овощная культура	Калий	Кальций	Магний	Фосфор	Железо
Баклажан	238	15	9	34	0,4
Горошек зелёный	285	26	38	122	0,7
Кабачок	238	15	9	12	0,4
Капуста белокочанная	185	48	16	31	1,0

В каком растении из перечисленных в таблице содержится больше всего фосфора?

Ответ: _____

Какую овощную культуру из перечисленных в таблице следует включить в свой рацион человеку, у которого недостаток кальция в организме?

Ответ: _____

Какие два растения из перечисленных в таблице наиболее схожи по своему минеральному составу?

Ответ: _____

Содержание верного ответа и указания по оцениванию	Баллы
Правильный ответ должен содержать ответы на три вопроса: 1) в горошке зелёном; 2) капуста белокочанная; 3) баклажан и кабачок	
Правильно даны ответы на три вопроса	2
Правильно даны ответы на любые два вопроса	1
Правильно дан ответ только на один любой вопрос. ИЛИ Ответ неправильный	0
Максимальный балл	*2*

© 2020 Федеральная служба по надзору в сфере образования и науки

8 Известно, что все организмы дышат. Артур решил проверить, при каких условиях происходит этот процесс, проведя следующий опыт. Он взял два одинаковых сосуда, в которые налил воду, содержавшую немного растворённых минеральных веществ. В каждый сосуд он поместил проростки фасоли. Затем плотно закрыл крышками сосуды, чтобы в них не проникал воздух. Раствор в первом сосуде Артур ежедневно насыщал воздухом с помощью пульверизатора. Через некоторое время растение во втором сосуде погибло.



8.1. Влияние какого условия на существование проростков фасоли исследовал Артур?

Ответ: _____

8.2. Чем условия опыта в одном сосуде отличались от условий в другом?

Ответ: _____

_____

8.3. Какой газ обеспечил жизнедеятельность одного из проростков фасоли? Обоснуйте свой ответ.

Ответ: _____

_____

© 2020 Федеральная служба по надзору в сфере образования и науки

8.1	влияние воздуха/кислорода

8.2

Содержание верного ответа и указания к оцениванию (допускаются иные формулировки ответа, не искажающие его смысла)	**Баллы**
Должен быть дан ответ на вопрос, например: в раствор в одном сосуде поступал воздух/кислород, а в другом – нет	
Правильно дан ответ на вопрос	1
Ответ неправильный	0
Максимальный балл	*1*

8.3

Содержание верного ответа и указания по оцениванию (допускаются иные формулировки ответа, не искажающие его смысла)	**Баллы**
Правильный ответ должен содержать следующие элементы: 1) ответ на вопрос: кислород; 2) обоснование, например: кислород обеспечивает дыхание, в результате выделяется энергия, необходимая для жизнедеятельности растения. Обоснование может быть приведено в иной, близкой по смыслу формулировке	
Правильно дан ответ на вопрос, приведено обоснование	2
Правильно дан только ответ на вопрос, обоснование не приведено / приведено неправильно	1
Ответ на вопрос отсутствует / дан неправильно независимо от наличия обоснования. ИЛИ Ответ неправильный	0
Максимальный балл	*2*

© 2020 Федеральная служба по надзору в сфере образования и науки

10 Растения по-разному относятся к свету, теплу и влаге, и это учитывается цветоводами при разведении различных растений.

10.1. Опишите особенности растений сциндапсуса и молочая, которые необходимо учитывать при их разведении в домашних условиях, используя для этого таблицу условных обозначений.

Условные обозначения:

1) Выносливость	выносливое	капризное	3) Требуемый режим полива	сухая земля	увлажнённая земля	постоянно влажная земля	вода в поддоне
2) Требуемая влажность воздуха	не требует опрыскивания	регулярное опрыскивание	4) Отношение к свету	прямые лучи	рассеянный свет	полутень	тень

Характеристики:

1)	2)	3)	4)

1)	2)	3)	4)

Сциндапсус:

1) _____

_____

2) _____

_____

3) _____

_____

4) _____

_____

Молочай:

1) _____

_____

2) _____

_____

3) _____

_____

4) _____

_____

10.2. По каким позициям из приведённых в описании эти растения имеют одинаковые характеристики?

Ответ. _____

_____

© 2020 Федеральная служба по надзору в сфере образования и науки

10.1

Содержание верного ответа и указания по оцениванию	Баллы
Правильный ответ должен содержать следующие условия выращивания растений: сциндапсус: 1) выносливое; 2) требует регулярного опрыскивания; 3) увлажнённая земля; 4) рассеянный свет; молочай: 1) выносливое; 2) не требует опрыскивания; 3) увлажнённая земля; 4) прямые лучи. Условия могут быть приведены в более развёрнутых формулировках	
Правильно указаны по четыре условия для выращивания каждого из растений	2
Правильно указаны два-три условия для выращивания одного растения и два–четыре условия для выращивания другого растения. ИЛИ Правильно указаны четыре условия для выращивания только одного из растений	1
Все комбинации элементов, не соответствующие указаниям по выставлению 2 и 1 балла. ИЛИ Ответ неправильный	0
Максимальный балл	*2*

10.2

Содержание верного ответа и указания по оцениванию	Баллы
Правильный ответ должен содержать указание следующих позиций, по которым растения имеют одинаковые характеристики: 1) сциндапсус и молочай – выносливые растения; 2) для выращивания предпочитают увлажнённую землю	
Правильно указаны две позиции	2
Правильно указана только одна позиция	1
Ответ неправильный	0
Максимальный балл	*2*

Система оценивания выполнения всей работы

Максимальный балл за выполнение работы – **28.**

Рекомендации по переводу первичных баллов в отметки по пятибалльной шкале

Отметка по пятибалльной шкале	**«2»**	**«3»**	**«4»**	**«5»**
Первичные баллы	0–11	12–17	18–23	24–28

© 2020 Федеральная служба по надзору в сфере образования и науки