КОД

Проверочная работа
по МАТЕМАТИКЕ

4 КЛАСС

Вариант 1

Инструкция по выполнению работы

На выполнение работы по математике даётся 45 минут. Работа содержит 12 заданий.

В заданиях, после которых есть поле со словом «Ответ», запиши ответ в указанном месте.

В заданиях 5 (пункт 2) и 11 нужно сделать чертёж или рисунок. В задании 10 нужно записать ответ, заполнив приведённую форму.

В заданиях, после которых есть поле со словами «Решение» и «Ответ», запиши решение и ответ в указанном месте.

Если ты хочешь изменить ответ, то зачеркни его и запиши рядом новый.

При выполнении работы нельзя пользоваться учебниками, рабочими тетрадями, справочниками, калькулятором.

При необходимости можно пользоваться черновиком. Записи в черновике проверяться и оцениваться не будут.

Советуем выполнять задания в том порядке, в котором они даны. Для экономии времени пропускай задание, которое не удаётся выполнить сразу, и переходи к следующему. Постарайся выполнить как можно больше заданий.

Желаем успеха!

Таблица для внесения баллов участника

Номер задания	1	2	3	4	5(1)	5(2)	6(1)	6(2)	7	8	9(1)	9(2)	10	11	12	Сумма баллов	Отметка за работу
Баллы																	

© ВПР 2022.

КОД

1 Вычисли: $69+18$.

Ответ:

2 Вычисли: $(98+91):9+3$.

Ответ:

3 Покупатель купил зубную щётку и зубную пасту. Рассмотри рисунок и ответь на вопрос. Сколько рублей сдачи получит покупатель с 500 рублей?

Запиши решение и ответ.

Решение.

Ответ:

КОД

4 Поезд из Москвы в Санкт-Петербург отправляется в 10 ч 20 мин. В какое время поезд окажется в Санкт-Петербурге, если длительность поездки составляет 4 ч 50 мин.? Разницы во времени в городах нет.

Ответ:

5 Ниже на клетчатом поле со стороной клетки 1 см изображён прямоугольник.

1) Найди площадь этого прямоугольника.

Ответ:

2) Изобрази на рисунке прямоугольник, который имеет площадь на 8 см^2 меньше исходного и весь является его частью.

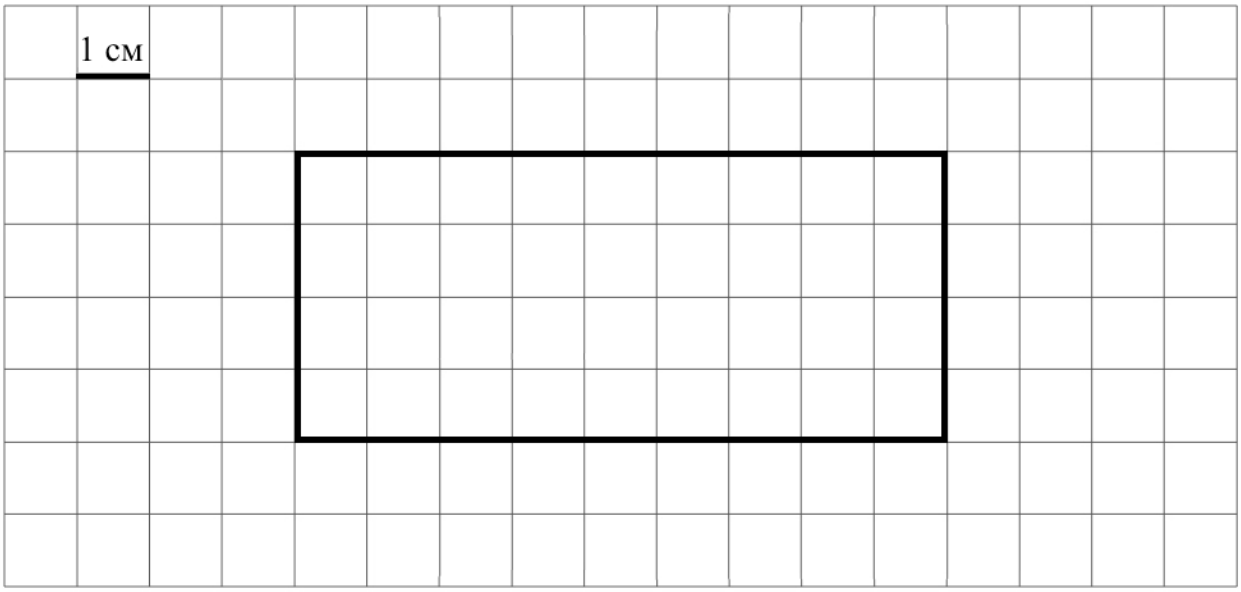

КОД

6 Подруги прочитали несколько книг из списка литературы, заданной на лето. Количество прочитанных книг по месяцам указано в таблице. Ответь на вопросы.

	Июнь	**Июль**	**Август**
Катя	3	2	4
Маша	2	1	5
Алиса	3	5	6
Вика	3	2	1

1) Сколько книг прочитала Алиса в июле?

Ответ:

2) Кто из подруг за лето прочитал книг меньше всех?

Ответ:

7 Найди значение выражения $1056 - 946 : 43 + 106$.

Ответ:

КОД

8 В течение недели папа ездит на автомобиле пять раз из дома на работу и обратно и один раз – из дома на дачу и обратно. Расстояние от дома до работы 15 км, а от дома до дачи 65 км. Сколько километров папа проедет на автомобиле за три недели?

Запиши решение и ответ.

Решение.

Ответ:

9 Алексей Юрьевич решил каждый день с понедельника по пятницу заниматься спортом. В понедельник он занимался боксом, во вторник бегал, в среду играл в бадминтон, в четверг снова занимался боксом, в пятницу снова бегал, в понедельник играл в бадминтон. И так он тренировался каждую неделю.

1) Каким видом спорта Алексей Юрьевич займётся в среду на второй неделе?

Ответ:

2) Сколько раз за первые две недели своих занятий спортом Алексей Юрьевич будет играть в бадминтон?

Ответ:

КОД

10 Антон написал сочинение «Наши соседи».

Если въехать в наш дачный посёлок на машине через ворота, то сразу слева наша дача. Справа сидит охранник в маленькой кирпичной будке, а сразу за будкой участок Максима Сергеевича. Рядом с нашим участком стоит водонапорная башня (на схеме её рисуют с помощью чёрного шестиугольника), но она очень старая и вся дырявая. Почти у всех есть скважины, а у Олега Ивановича на участке есть колодец, и он говорит, что у него вода чище, чем из скважин. Ну, не знаю.

Олег Иванович живёт рядом с прудом, который посередине посёлка, а с другой стороны от пруда живёт Анна Львовна. Раньше рядом с нею жил её брат; у них участок был поделен пополам и был общий дом, но потом брат переехал куда-то далеко и оставил свою половину сестре. Но получился пустой участок, потому что Анна Львовна говорит, что ей столько места не нужно. Сейчас там ничего нет, только заросли, где мы играем с ребятами. Ребят мало — я, Володя и ещё Коля. Володя живёт на участке, где растёт большая ёлка, а Коля — через дорожку от Володи. Между их участками маленькая калитка, через которую мы выходим, если нам нужно в лес за грибами или на речку.

Рассмотри план посёлка и, пользуясь описанием, которое дал Антон, обозначь цифрами на плане шесть участков.

1. Участок автора сочинения Антона.
2. Участок, где живёт Володя.
3. Участок, где живёт Коля.
4. Участок Максима Сергеевича.
5. Участок Олега Ивановича.
6. Участок Анны Львовны.

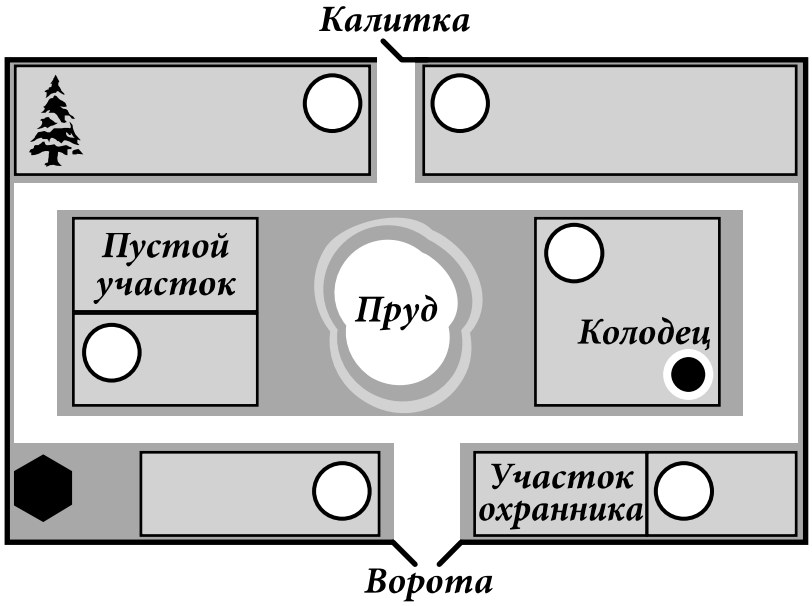

КОД

11 На рисунке изображён катер и его отражение в воде. На борту катера написано название «Озорной». Напиши название катера на отражении в воде.

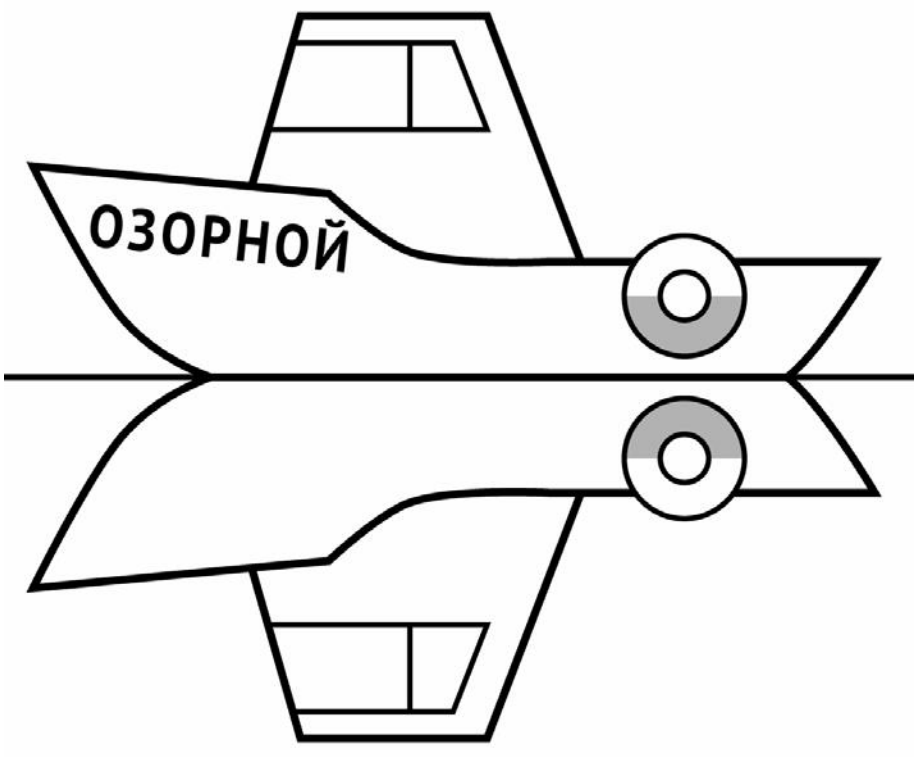

12 Маша собирала грибы. Лисичек Маша собрала в три раза больше, чем сыроежек, а груздей столько же, сколько сыроежек. Маша решила посчитать все собранные грибы. Сначала у неё получилось 66 грибов, потом – 65, а в третий раз – 67. Известно, что один раз Маша посчитала верно. Сколько грибов собрала Маша?

Запиши решение и ответ.

Решение.

Ответ: