КОД

Проверочная работа

по ГЕОГРАФИИ

7 КЛАСС

Вариант 1

Инструкция по выполнению работы

На выполнение работы по географии даётся 45 минут. Работа включает в себя 8 заданий.

Ответы на задания запишите в поля ответов в тексте работы. В случае записи неверного ответа зачеркните его и запишите рядом новый.

При вычислениях разрешается использовать непрограммируемый калькулятор. Для выполнения задания 2 Вам потребуется карандаш.

При выполнении работы не разрешается пользоваться учебником, рабочими тетрадями, атласом и другим справочным материалом.

При необходимости можно пользоваться черновиком. Записи в черновике проверяться и оцениваться не будут.

Советуем выполнять задания в том порядке, в котором они даны. В целях экономии времени пропускайте задание, которое не удаётся выполнить сразу, и переходите к следующему. Если после выполнения всей работы у Вас останется время, то Вы сможете вернуться к пропущенным заданиям.

Значком отмечены задания, ответы на которые фиксируются на картах, приведённых на страницах 2, 11.

Желаем успеха!

Заполняется учителем, экспертом или техническим специалистом

Обратите внимание: в случае, если какие-либо задания не могли быть выполнены целым классом по причинам, связанным с отсутствием соответствующей темы в реализуемой школой образовательной программе, в форме сбора результатов ВПР всем обучающимся класса за данное задание вместо балла выставляется значение «Тема не пройдена». В соответствующие ячейки таблицы заполняется н/п.

Таблица для внесения баллов участника

Номер задания	1.1	1.2	1.3	2.1	2.2	2.3	3.1	3.2	3.3	4.1	4.2	5.1	5.2	6.1	6.2	6.3
Баллы																

Номер задания	7.1	7.2	8.1	8.2	Сумма баллов	Отметка за работу
Баллы						

© 2022 Федеральная служба по надзору в сфере образования и науки

КОД

Карта для выполнения заданий 1 – 3

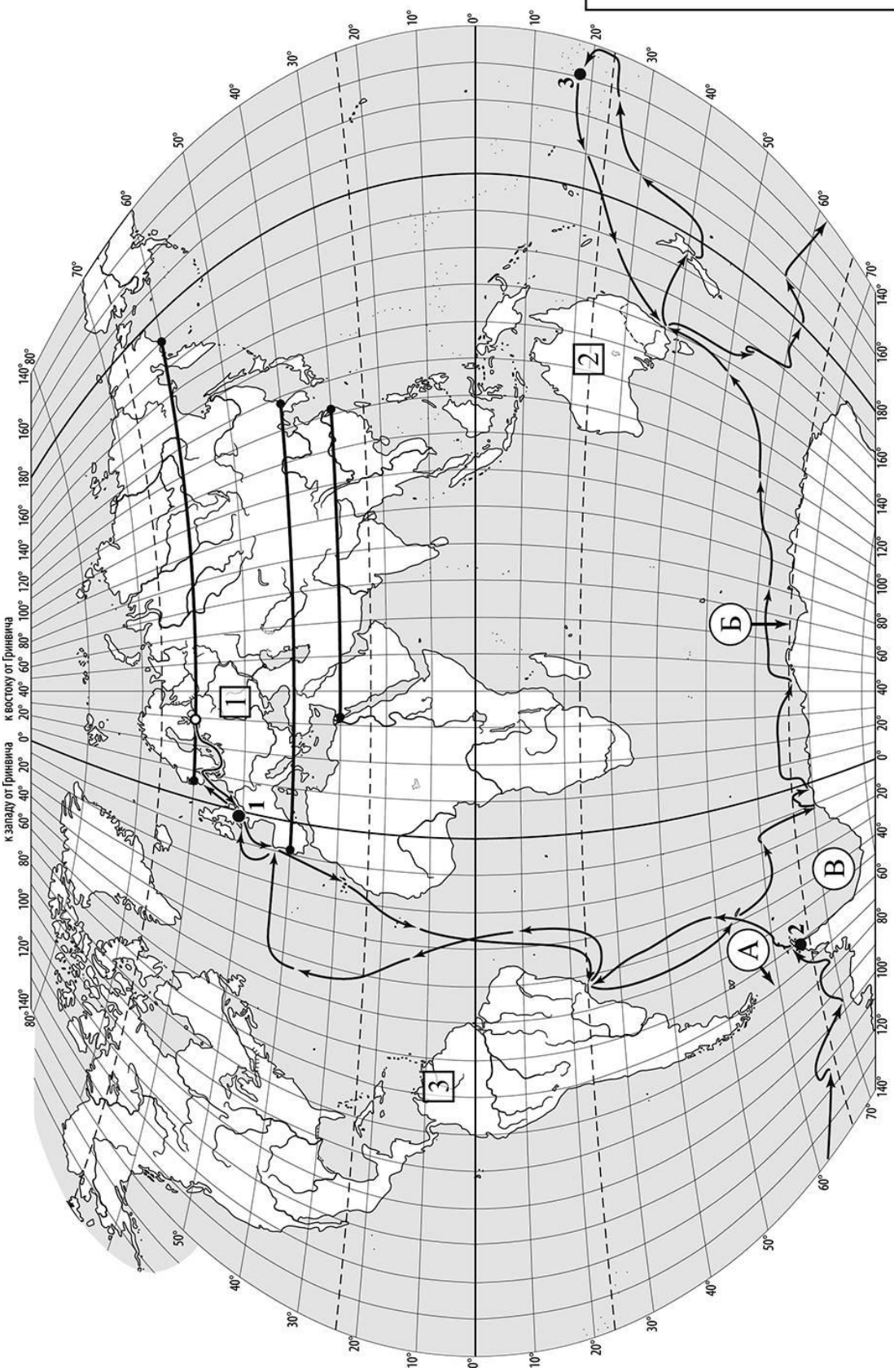

КОД

Задания 1–3 выполняются с использованием карты мира, приведённой на странице 2.

1 На карте мира, приведённой на странице 2, изображён маршрут экспедиции одного из путешественников, портреты которых представлены ниже. Рассмотрите карту и портреты путешественников и выполните задания.

1.1. Маршрут экспедиции кого из путешественников изображён на карте?



Марко Поло

Н.М. Пржевальский

Ф.Ф. Беллинсга́узен

Ответ. _____

Подпишите на карте название материка, который был открыт в результате этой экспедиции.

1.2. На карте буквами обозначены объекты, определяющие географическое положение материка, который был открыт в результате этой экспедиции. Выберите из приведённого списка и запишите в таблицу названия этих объектов.

Гибралтарский пролив, Средиземное море, Южный полярный круг, Северный полярный круг, море Уэдделла, пролив Дрейка.

А	Б	В

1.3. По линии маршрута экспедиции отмечены точки, расположенные на территории крупных географических объектов. Определите и запишите в ответе географические координаты **точки 2**.

Ответ. _____

На территории какого географического объекта расположена точка 2? Запишите в ответе его название.

Ответ. _____

КОД

2 На уроке географии Виктор построил профиль рельефа Евразии, представленный на рисунке 1. Используя рисунок и карту мира, приведённую на странице 2, выполните задания.

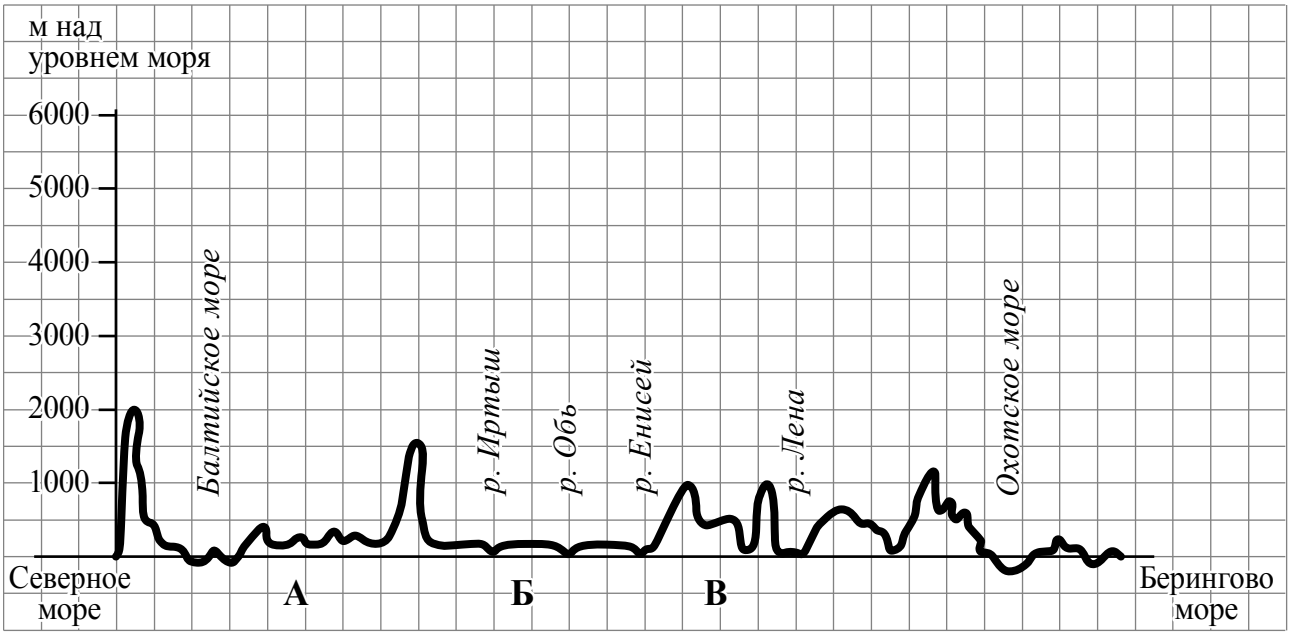

Рисунок 1

2.1. По какому из отрезков, проведённых на карте вдоль трёх параллелей, пересекающих материк Евразия, построен профиль рельефа, представленный на рисунке 1? Укажите в ответе значение параллели.

Ответ. _____

Определите по карте протяжённость материка Евразия **в градусах** по указанной Вами параллели.

Ответ. _____ °.

Рассчитайте протяжённость материка Евразия по указанной Вами параллели **в километрах** с помощью приведённой ниже таблицы. (Для расчёта воспользуйтесь калькулятором.)

Широта	0°	10°	20°	30°	40°	50°	60°	70°	80°	90°
Длина дуги параллели в 1°, км	111,3	109,6	104,6	96,5	85,4	71,7	55,8	38,2	19,4	0

Ответ. _____ км.

КОД

2.2. Какой крупной форме рельефа соответствует участок профиля, обозначенный на рисунке 1 буквой А?

1) Великая Китайская равнина
2) Уральские горы
3) Восточно-Европейская равнина
4) Великая Китайская равнина

Ответ.

Какие абсолютные высоты преобладают на территории, через которую проходит профиль на этом участке?

Ответ. _____ м.

2.3. На рисунке 2 представлены значки, которыми обозначаются месторождения полезных ископаемых на географических картах.

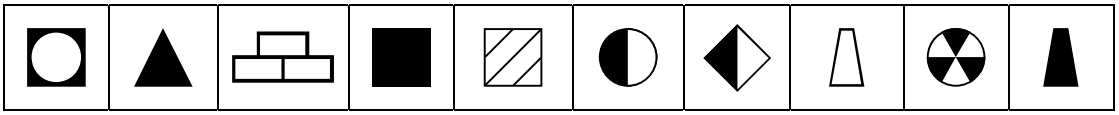

Рисунок 2

Внесите в таблицу значки, обозначающие месторождения полезных ископаемых, которые добывают на территории, обозначенной на профиле буквой А.

Нефть	Бурый уголь	Торф	Алюминиевые руды / Бокситы

КОД

3 Рассмотрите рисунки с изображением климатограмм, построенных по данным метеонаблюдений в разных частях Земли, и выполните задания.

3.1. На карте мира территории, для которых построены изображённые на рисунках климатограммы, показаны квадратами с соответствующими номерами климатограмм. Определите, какому климатическому поясу соответствует каждая климатограмма. Подпишите названия климатических поясов под соответствующими климатограммами.

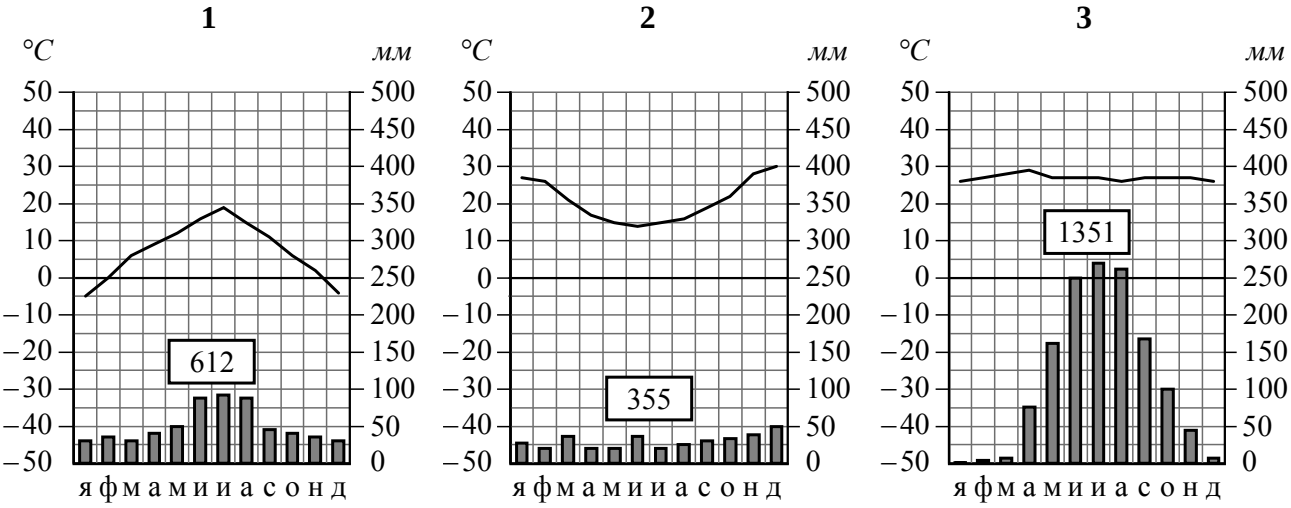

_____ _____ _____

3.2. Какой природной зоне мира соответствуют приведённые ниже характеристики? Укажите в ответе название этой природной зоны.

1) Занимает территории с засушливым климатом.
2) Распространены эоловые формы рельефа: дюны, барханы.
3) Преобладают каменистые или песчаные почвы.
4) Растительность не образует сплошного покрова, а на части территории почти отсутствует, видовой состав отличается на разных материках.
5) Много грызунов, членистоногих, пресмыкающихся.

Ответ. _____

Выберите климатограмму, соответствующую климатическим особенностям указанной Вами природной зоны. Запишите в ответе её номер.

Ответ.

3.3. По выбранной климатограмме заполните таблицу климатических показателей для указанной Вами природной зоны.

Средняя температура воздуха, °C		Годовая амплитуда температур, °C	Годовое количество осадков, мм	Месяц, на который приходится наибольшее количество осадков
самого холодного месяца	самого тёплого месяца			

КОД

4 Рассмотрите схему природного процесса и выполните задания.

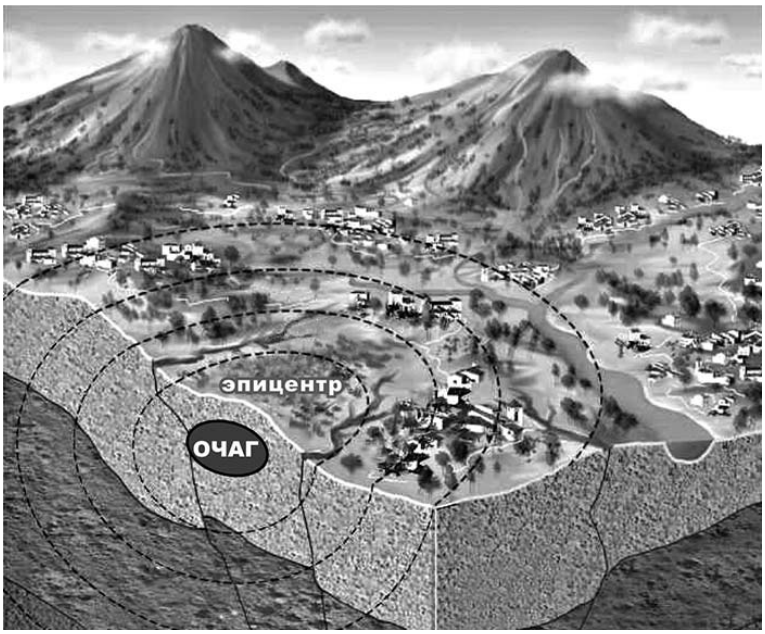

4.1. Какой природный процесс отображён на схеме?

Ответ. _____

4.2. Установите последовательность этапов указанного Вами природного процесса. Запишите в ответе **порядковые номера** этапов.

ЭТАПЫ:
1) Колебания распространяются в виде сейсмических волн.
2) Толчки распространяются из глубины земной коры от места разрыва в направлении к земной поверхности.
3) В земной коре накапливается внутренняя энергия.
4) Возникают колебания земной поверхности, сопровождающиеся подземным гулом.
5) Под действием внутренней энергии в земной коре происходят разрывы и смещение горных пород, сопровождающиеся мощными толчками.

Ответ. | | | | | |

КОД

5

5.1. Установите соответствие между материками и их географическими особенностями.

Материки

А – Евразия
Б – Северная Америка

Географические особенности

1) На материке расположены две страны, занимающие 80% площади материка и входящие в пятёрку самых крупных стран мира.
2) На материке расположена высочайшая горная система мира, в пределах которой находится самая высокая вершина Земли.
3) К северу от материка расположен один из крупнейших архипелагов Земли.
4) Материк расположен в двух частях света.
5) В центральной части материка часты ураганы и смерчи – торнадо.
6) На территории материка находится самое влажное место на Земле (Черапунджи), где выпадает более 12 000 мм осадков в год.

Запишите в таблицу выбранные цифры под буквами, которыми обозначены материки.

Ответ.

Материк	**А**	**Б**
Географические особенности		

5.2. Заполните блок-схему: для этого по указанным на схеме названиям географических объектов, определите и запишите название одного из двух материков, указанных в задании 5.1, а затем выберите из списка названия других географических объектов, расположенных на территории этого материка, запишите их в соответствующие ячейки на схеме и заполните оставшиеся пустые ячейки.

Гималаи, Анхель, Чад, Большое Солёное, Кавказ, Ладожское, Кордильеры, Аппалачи, Саргассово, Миссури, Парана, Титикака.

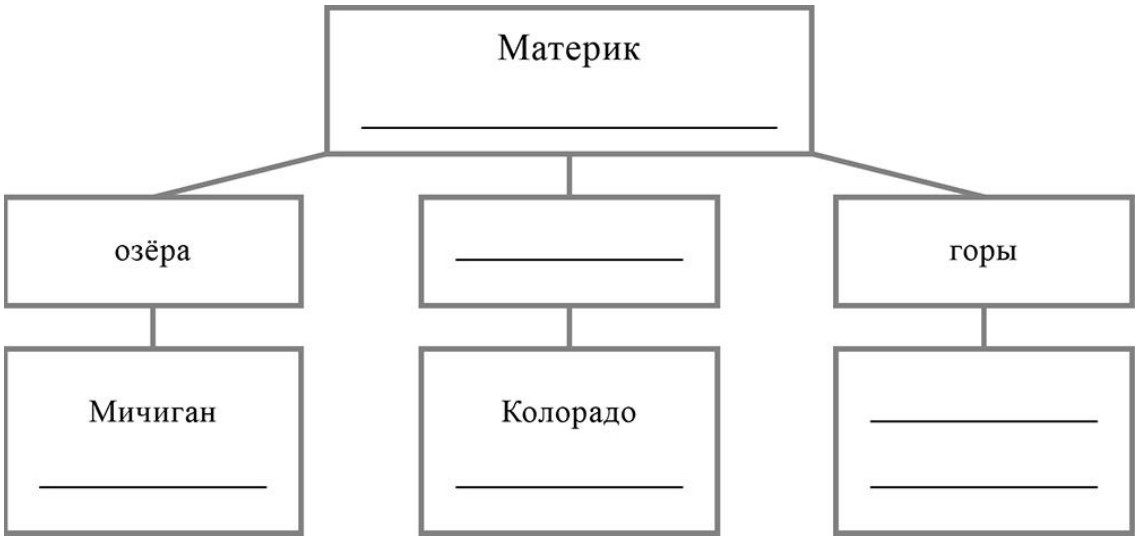

КОД

Задание 6 выполняется с использованием политической карты мира, приведённой на странице 11.

6 Мигель и Луиза познакомились в международном лагере на Мальте. Мигель живёт в столице Мексики, а Луиза – в столице Португалии. Подростки общаются через Интернет, и при общении им приходится учитывать разницу во времени между их городами.

6.1. На политической карте мира, приведённой на странице 11, выделите штриховкой страны, в которых живут подростки.

6.2. Вследствие вращения Земли время различается в разных её частях, и в Мексике день наступает позже, чем в Португалии. Часы на рисунках отображают время в городах, где живут подростки. Подпишите названия городов под соответствующими часами.



Время по Гринвичу

12:00 (полдень)



_____

1 марта
12:00



_____

1 марта
06:00

6.3. Луиза отправила Мигелю электронное сообщение в 19:30 по местному времени.

Луиза

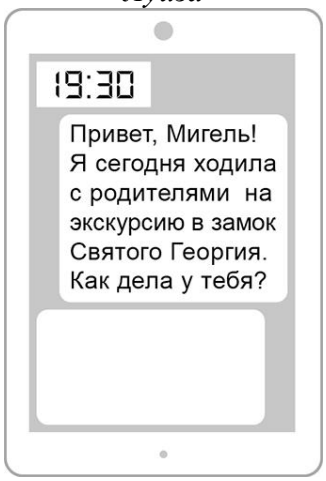

Мигель

Какое время будет отображаться в соответствующем окне на экране смартфона Мигеля, когда он получит сообщение от Луизы?

Ответ. _____

КОД

7 Используя представленную ниже таблицу выполните задания.

Рост численности населения в странах мира, 2000-2015 гг.

№	Страна	Численность населения в 2018 году, млн человек	Годы			
			2000	2005	2010	2015
1	Гана	30	19	21	24	27
2	Вьетнам	98	80	83	88	93
3	Франция	66	59	61	63	64
4	Чили	19	15	16	17	18

7.1. Расположите страны в порядке **увеличения** численности населения в 2018 году, начиная со страны с самой маленькой численностью. Запишите в ответе последовательность **порядковых номеров** этих стран.

Ответ. | | | | |

7.2. Рост численности населения какой страны, из приведённых в таблице, отражает график, обозначенный буквой Б? Запишите в ответе **название** страны.

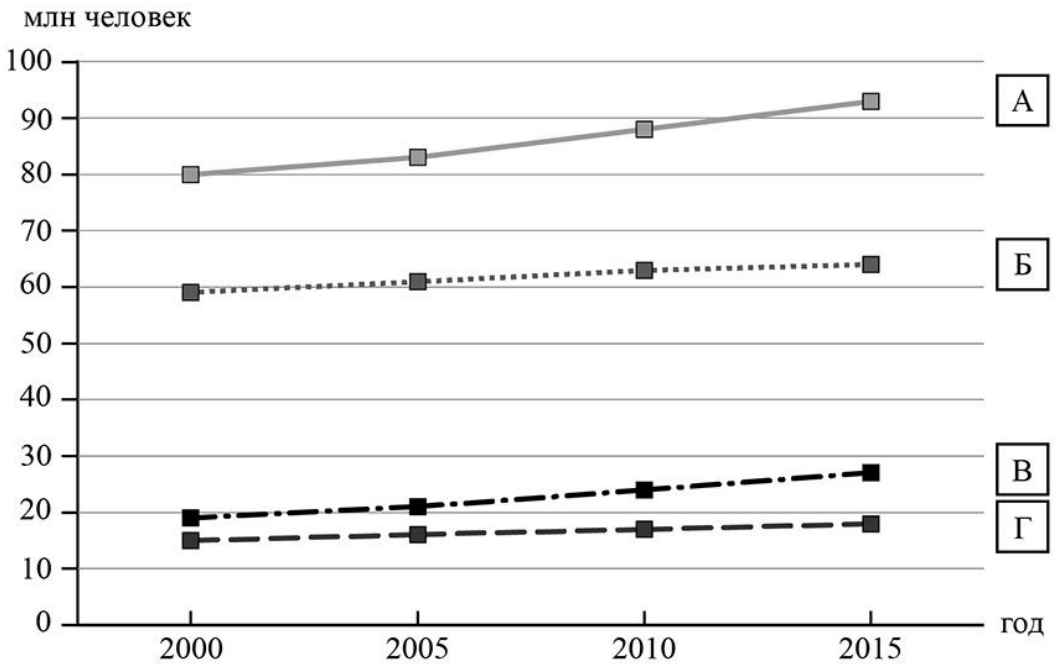

Ответ. _____

КОД

Карта для выполнения задания 6

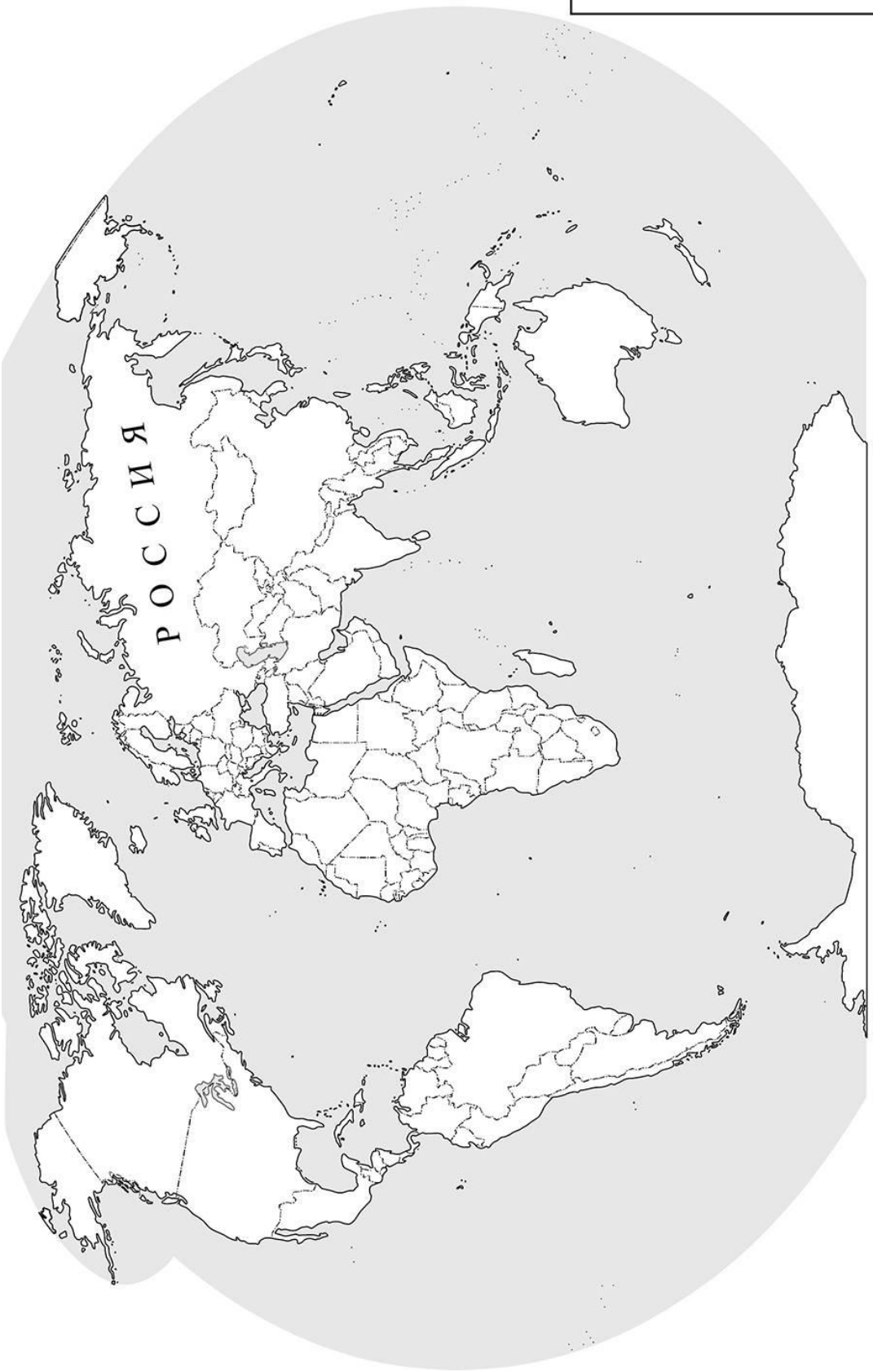

КОД

8 Представьте, что Вы познакомились со своим сверстником, который живёт за границей, и он прислал Вам фотографии, сделанные в его стране.

8.1. Рассмотрите фотографии и ответьте на вопрос.

В какой стране живёт Ваш сверстник?

Ответ. _____

8.2. Рассмотрите представленные ниже рисунки. Выберите рисунок с контуром страны, в которой живёт Ваш сверстник. Запишите в ответе букву, которой обозначен этот рисунок.

А

Б

В

Ответ.

Какие горы находятся в этой стране?

Ответ. _____