КОД

Проверочная работа
по МАТЕМАТИКЕ

4 КЛАСС

Вариант 2

Инструкция по выполнению работы

На выполнение работы по математике даётся 45 минут. Работа содержит 12 заданий.

В заданиях, после которых есть поле со словом «Ответ», запиши ответ в указанном месте.

В заданиях 5 (пункт 2) и 11 нужно сделать чертёж или рисунок. В задании 10 нужно записать ответ, заполнив приведённую форму.

В заданиях, после которых есть поле со словами «Решение» и «Ответ», запиши решение и ответ в указанном месте.

Если ты хочешь изменить ответ, то зачеркни его и запиши рядом новый.

При выполнении работы нельзя пользоваться учебниками, рабочими тетрадями, справочниками, калькулятором.

При необходимости можно пользоваться черновиком. Записи в черновике проверяться и оцениваться не будут.

Советуем выполнять задания в том порядке, в котором они даны. Для экономии времени пропускай задание, которое не удаётся выполнить сразу, и переходи к следующему. Постарайся выполнить как можно больше заданий.

Желаем успеха!

Таблица для внесения баллов участника

Номер задания	1	2	3	4	5(1)	5(2)	6(1)	6(2)	7	8	9(1)	9(2)	10	11	12	Сумма баллов	Отметка за работу
Баллы																	

©2023

КОД

1 Вычисли: $293 - 62$.

Ответ:

2 Вычисли: $7 + 95 : 5 + 14$.

Ответ:

3 Рассмотри рисунок и ответь на вопрос: сколько рублей сдачи получит покупатель, расплатившийся за 1 кг груш и 1 кг персиков купюрой в 500 руб.?

Запиши решение и ответ.

Решение.

Ответ:

КОД

4 Каждая серия мультфильма длится одно и то же число минут. Света посмотрела две серии мультфильма без перерыва. Мультфильм начался в 17 ч 25 мин и закончился в 18 ч 15 мин. Сколько минут длится каждая серия?

Ответ:

5 На клетчатой бумаге нарисована фигура. Сторона клетки равна 1 см.

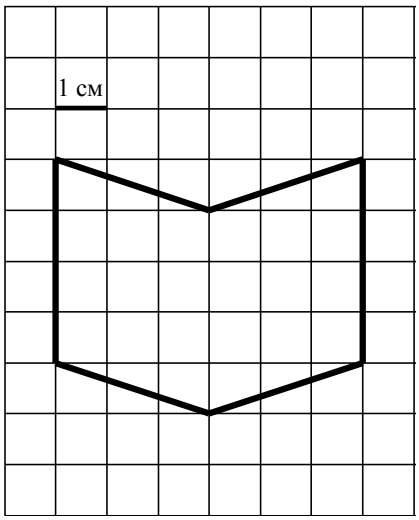

1) Найди площадь этой фигуры. Ответ дай в кв. см.

Ответ:

2) Нарисуй по клеточкам прямоугольник, площадь которого равна площади изображённой фигуры.



КОД

6 Среди школьников провели опрос «Твой любимый вид спорта». Результаты опроса показаны в таблице. Ответь на вопросы.

Класс	Бадминтон	Карате	Бег на коньках	Футбол
6-й класс	3	2	7	10
7-й класс	7	4	3	5
8-й класс	5	7	4	6

1) В каком классе больше всего школьники любят бег на коньках?

Ответ:

2) Сколько всего школьников этих классов назвали своим любимым видом спорта бадминтон?

Ответ:

7 Найди значение выражения $(209+117)\cdot 16+39$.

Ответ:

КОД

8 Шесть килограммов мёда разлили в большие и маленькие банки. В большую банку помещается 400 г мёда, а в маленькую — 300 г. Было заполнено 6 больших банок. Сколько потребовалось маленьких банок?

Запиши решение и ответ.

Решение.

Ответ:

9 Кирилл, Лена и Саша ловили окуней. Кирилл поймал окуней меньше, чем Лена. Вместе Кирилл и Лена поймали столько же окуней, сколько поймал Саша. Меньше четырёх окуней не поймал никто из них, а вместе они поймали 20 окуней.

1) Сколько окуней поймал Саша?

Ответ:

2) Сколько окуней поймала Лена?

Ответ:

КОД

10 Таня написала сочинение «Поездка в соседний город» и начертила план этого города.

На каникулах мы с моими родителями поехали на машине в соседний город в гости к папиному другу дяде Ване. Всю дорогу я смотрела в окно.

Когда мы въехали в город, слева вдоль дороги тянулись новые высокие дома. Больше 10 этажей, точно я сосчитать не успела. Папа сказал, что это новый жилой район. Справа, напротив многоэтажек, был магазин. За магазином был перекрёсток — направо уходила дорога, а налево поворота не было. Папа сказал, что это Т-образный перекрёсток. Но мы поехали прямо. Справа оказался парк, слева двухэтажное здание, а рядом с ним — очень красивая детская площадка. Вечером мы пошли туда гулять, и я смогла покачаться на качелях и покататься с горок.

На следующем перекрёстке мы повернули направо и проехали мимо городской поликлиники. Затем был снова Т-образный перекрёсток, а за ним стадион. Там спортсмены бегали по беговой дорожке. Наверно, тренировались. Напротив стадиона ещё один жилой квартал. Оказалось, что нам как раз туда и нужно. В одном из домов живёт дядя Ваня с семьёй. Они все вышли встречать нас. Мы увидели их прямо из машины, и я замахала рукой.

Рассмотри план города. Пользуясь описанием, которое дала Таня, отметь на плане цифрами шесть объектов.

1. Жилой квартал, в котором находится дом дяди Вани.
2. Поликлиника.
3. Стадион.
4. Парк.
5. Магазин.
6. Детская площадка.

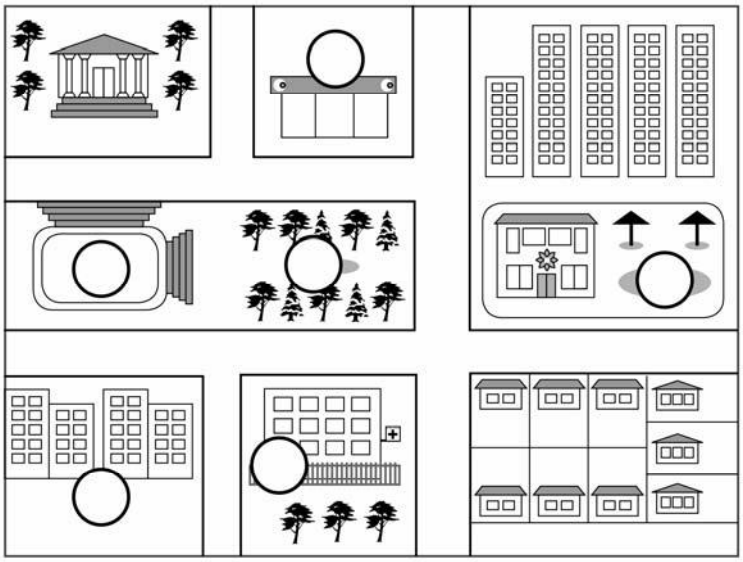

КОД

11 На столбе висела табличка (рис. 1). Верхний винт, державший табличку, выпал, и табличка перевернулась. Нарисуй, как будет выглядеть перевёрнутая табличка с надписью (рис. 2).

Рис. 1

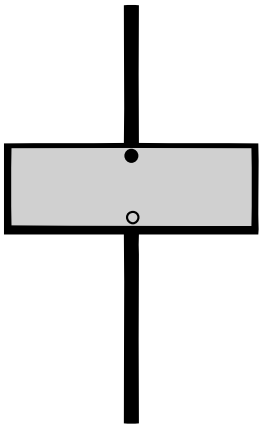

Рис. 2

12 В коробке лежат синие, красные и зелёные карандаши. Всего их 15 штук. Синих карандашей в 5 раз больше, чем зелёных, а красных меньше, чем синих. Сколько в коробке красных карандашей?

Запиши решение и ответ.

Решение.

Ответ: