КОД

Проверочная работа

по БИОЛОГИИ

6 КЛАСС

(концентрическая программа)

Вариант 1

Инструкция по выполнению работы

На выполнение работы по биологии отводится 45 минут. Работа включает в себя 10 заданий.

Ответы на задания запишите в поля ответов в тексте работы. В случае записи неверного ответа зачеркните его и запишите рядом новый.

При выполнении работы не разрешается пользоваться учебником, рабочими тетрадями и другим справочным материалом. Разрешается использовать линейку.

При необходимости можно пользоваться черновиком. Записи в черновике проверяться и оцениваться не будут.

Советуем выполнять задания в том порядке, в котором они даны. В целях экономии времени пропускайте задание, которое не удаётся выполнить сразу, и переходите к следующему. Если после выполнения всей работы у Вас останется время, то Вы сможете вернуться к пропущенным заданиям.

Желаем успеха!

Заполняется учителем, экспертом или техническим специалистом

Обратите внимание: в случае, если какие-либо задания не могли быть выполнены целым классом по причинам, связанным с отсутствием соответствующей темы в реализуемой школой образовательной программе, в форме сбора результатов ВПР всем обучающимся класса за данное задание вместо балла выставляется значение «Тема не пройдена». В соответствующие ячейки таблицы заполняется н/п.

Таблица для внесения баллов участника

Номер задания	1.1	1.2	1.3	2.1	2.2	3	4.1	4.2	4.3	5	6	7	8.1	8.2	9	10	Сумма баллов	Отметка за работу
Баллы																		

КОД

1 На представленном ниже рисунке ученик зафиксировал в виде схемы один из процессов жизнедеятельности растительной клетки. Рассмотрите схему и ответьте на вопросы.

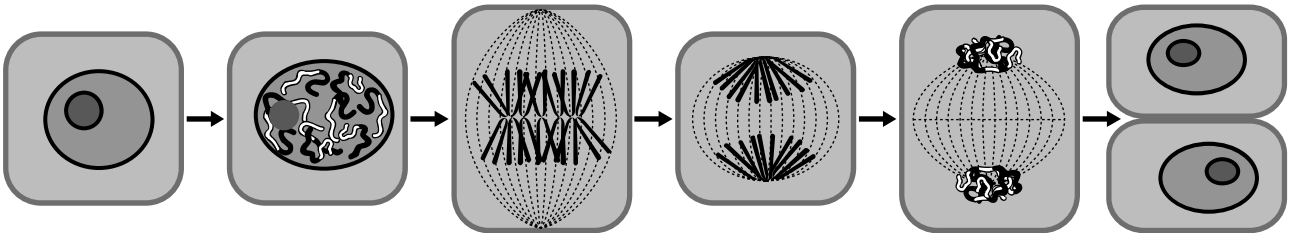

1.1. Как называют данный процесс?

Ответ. _____

1.2. С помощью какого метода удалось обнаружить этот процесс?

Ответ. _____

1.3. Каково значение данного процесса в жизни растения?

Ответ. _____

2 В приведённой ниже таблице между позициями первого и второго столбцов имеется взаимосвязь.

Целое	Часть
Механическая ткань	…
Покровная ткань	Кожица

2.1. Какое понятие следует вписать на место пропуска в этой таблице?

1) камбий
2) сосуды
3) устьица
4) древесинные волокна

Ответ.

2.2. Какие функции выполняют устьица у растений? Назовите одну любую функцию.

Ответ. _____

КОД

3 Выберите из предложенного списка и вставьте в текст пропущенные слова, используя для этого их цифровые обозначения. Впишите номера выбранных слов на места пропусков в тексте.

СТРОЕНИЕ СЕМЕНИ ПШЕНИЦЫ

Пшеница – важнейшая зерновая культура. Семя пшеницы снаружи покрыто _____(А), которая плотно срослась со стенкой плода. Основную часть зерновки составляет _____(Б). На препарате продольного разреза зерновки под микроскопом видны органы _____(В): корешок, стебелёк и почечка.

Список слов:

1) кожура
2) пластинка
3) зародыш
4) эндосперм
5) семядоля
6) кора

Запишите в таблицу выбранные цифры под соответствующими буквами.

Ответ.

А	Б	В

4 Рассмотрите изображение семени фасоли в разрезе и выполните задания.

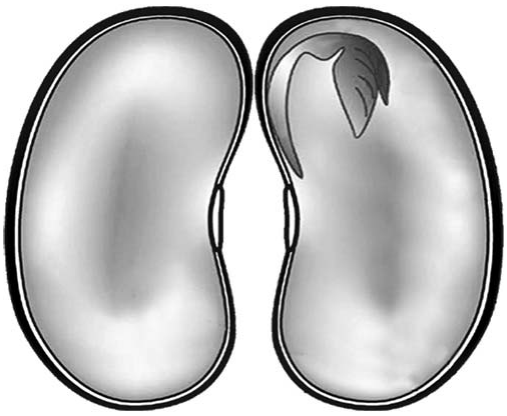

4.1. Покажите стрелками и подпишите на рисунке *семядоли, семенную кожуру, зародышевый корешок*.

4.2. Какие вещества образуются при дыхании семян?

Ответ. _____

_____

4.3. Если раздавить на чистой бумаге семечко подсолнечника, то на ней образуется пятно. Какое вещество семени его образовало?

Ответ. _____

КОД

5 Рассмотрите изображение листа древесного растения и опишите его по следующему плану: форма листа, жилкование листа, тип листа по соотношению длины и ширины листовой пластинки (без черешка) и по расположению наиболее широкой части. Используйте при выполнении задания линейку и карандаш.

А. <u>Форма листа</u>

1) перисто-лопастная 	2) перисто-раздельная 
3) перисто-рассечённая	4) цельная 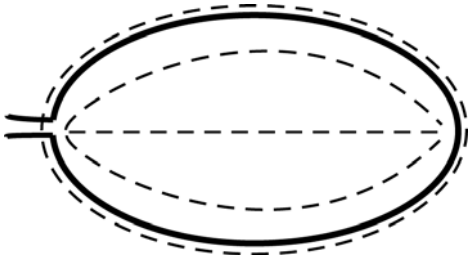

КОД

Б. <u>Жилкование листа</u>

	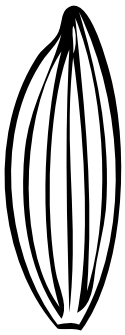		
1) параллельное	2) дуговидное	3) пальчатое	4) перисто-сетчатое

В. <u>Тип листа</u> по соотношению длины и ширины листовой пластинки (без черешка) и по расположению наиболее широкой части

Длина равна ширине или немного её превышает.		
1) широкояйцевидный 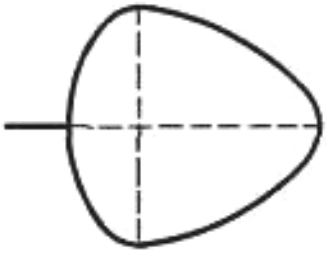	2) округлый 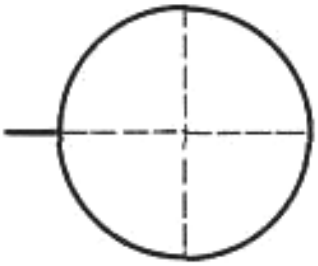	3) обратно-широкояйцевидный 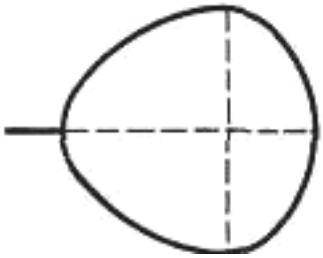
Длина превышает ширину в 1,5–2 раза.		
4) яйцевидный 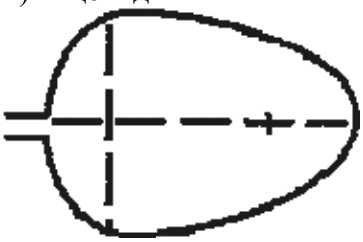	5) овальный 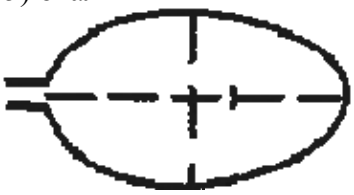	6) обратно-яйцевидный 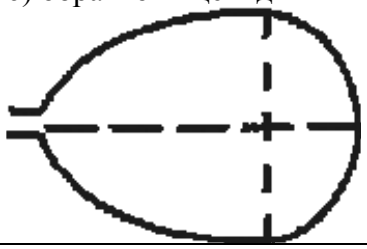

Впишите в таблицу **<u>номера</u>** выбранных ответов под соответствующими буквами.

Ответ.

А	Б	В

КОД

6 Какой из перечисленных плодов является односеменным?

1) ягода
2) орех
3) тыквина
4) яблоко

Ответ.

7 Полина и Евгений собрали и подготовили для гербария образцы растений. Для каждого растения им необходимо составить «паспорт», соответствующий положению этого растения в общей классификации организмов. Помогите ребятам записать в таблицу **слова (словосочетание)** из предложенного списка в такой последовательности, чтобы получился «паспорт» растения.

Список слов (словосочетание):
1) Рожь
2) Растения
3) Рожь культурная
4) Покрытосеменные
5) Однодольные

Царство	Отдел	Класс	Род	Вид

КОД

8

8.1. Установите соответствие между характеристиками и царствами: к каждой позиции, данной в первом столбце, подберите соответствующую позицию из второго столбца.

ХАРАКТЕРИСТИКИ

А) могут вызывать порчу продуктов питания
Б) способны к фотосинтезу
В) в составе клеточных стенок имеется хитин
Г) тело представлено мицелием
Д) оболочка клеток содержит целлюлозу
Е) по способу питания автотрофы

ЦАРСТВА

1) Растения
2) Грибы

Запишите в таблицу выбранные цифры под соответствующими буквами.

Ответ:

А	Б	В	Г	Д	Е

8.2. Приведите по три примера организмов, относящихся к указанным царствам. Запишите их названия в таблицу.

Растения	Грибы

9

Верны ли следующие суждения о жизнедеятельности бактерий?

А. Есть виды, способные жить в условиях полного отсутствия кислорода.
Б. Паразитические бактерии могут вызывать заболевания любых организмов: растений, животных и человека.

1) верно только А
2) верно только Б
3) оба суждения верны
4) оба суждения неверны

Ответ.

КОД

10 Рассмотрите изображения шести представителей мира растений. Предложите основание, согласно которому их можно разделить на две группы – по три представителя в каждой.

Сосна обыкновенная

Белая акация

Ель обыкновенная



Рябина

Берёза

Тис ягодный

Заполните таблицу: запишите в неё основание, по которому были разделены растения, общее название для каждой группы растений и перечислите растения, которые Вы отнесли к этой группе.

Номер группы	Какое основание позволило разделить растения?	Как называется данная группа растений?	Какие растения относятся к данной группе?
Группа 1			
Группа 2			