# ИТОГОВАЯ РАБОТА ПО МАТЕМАТИКЕ ДЛЯ 1 КЛАССА

РЕГИСТРАЦИОННЫЕ ДАННЫЕ

Код региона ☐☐ Код школы ☐☐☐ Код класса ☐☐☐☐ Код учащегося ☐☐

Фамилия, Имя учащегося

**ВАРИАНТ 2**

1 12 ☐ 8 ☐ 10 ☐ 7 ☐

2 7+8 Ответ: ☐☐☐☐☐☐☐☐☐☐

3 18-6 Ответ: ☐☐☐☐☐☐☐☐☐☐

4

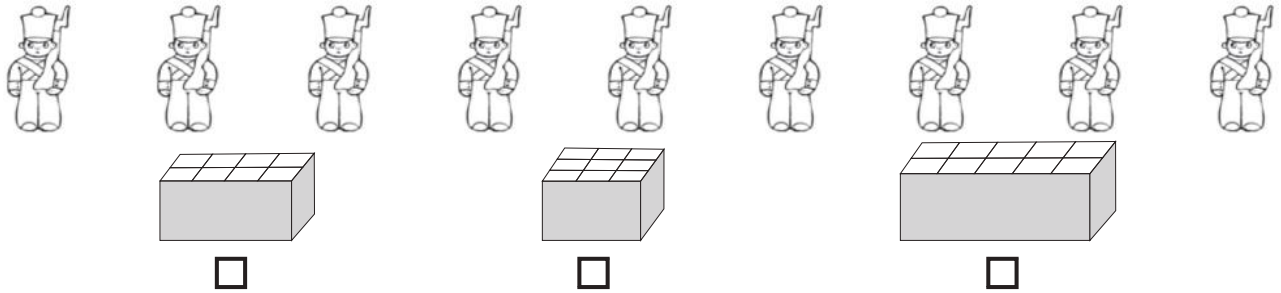

☐ ☐ ☐

5 7 ☐ 2 ☐ 5 ☐ 9 ☐

6

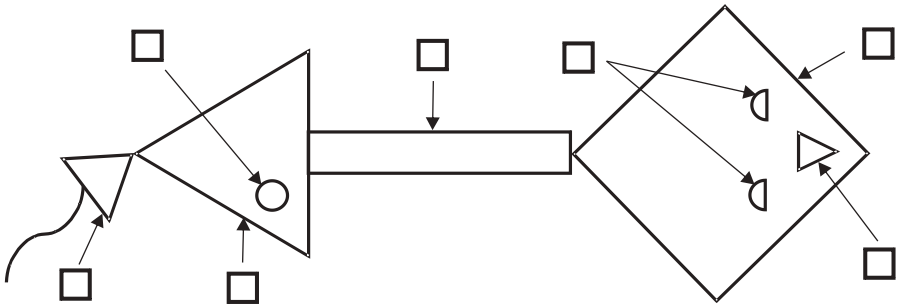

7



☐

Решение: ☐☐☐☐☐☐☐☐☐☐☐☐☐☐☐☐☐☐☐☐☐☐☐☐☐☐☐☐☐

8 Найди треугольники. Отметь их ☒.

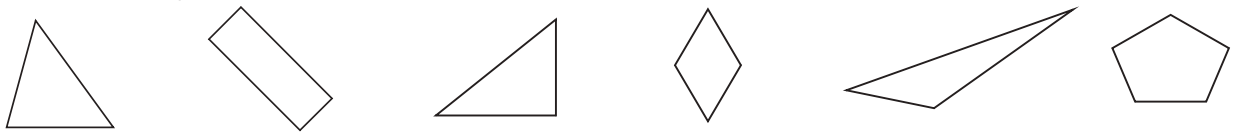

☐ ☐ ☐ ☐ ☐ ☐

9 Тетрадь стоит семь рублей, карандаш на 2 рубля дешевле. Сколько стоит карандаш? Отметь ответ ☒.

2 ☐ 7 ☐ 5 ☐ 9 ☐

(10) Мише надо пройти к дому. По какой дороге ему надо пойти, чтобы сосна была слева, а песочница – справа? Отметь ☒.

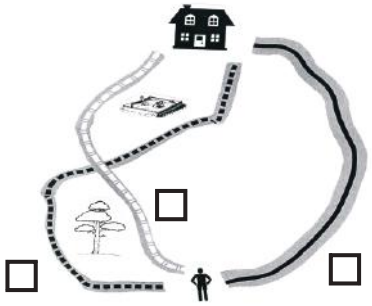

## ДОПОЛНИТЕЛЬНЫЕ ЗАДАНИЯ

(11) Лиля сложила одинаковые числа и получила в ответе 6. Какие числа могла сложить Лиля?

Решение 1: _____

Решение 2: _____

Решение 3: _____

(12) Таня наловила бабочек. Бабочек больше 8, но меньше 11. Сколько бабочек могла наловить Таня?

Ответ: ☐☐☐☐☐☐☐☐☐☐☐☐☐☐☐

(13) Ребята играли на компьютере. В каждой игре побеждает тот, кто заработает больше очков. В таблице указано, сколько очков заработал каждый игрок.

| Дети | Игры | |
|---|---|---|
| | «Космос» | «Цирк» |
| Лена | 4 | 6 |
| Антон | 7 | 2 |
| Вера | 4 | 5 |
| Стёпа | 3 | 4 |

Ответь на вопросы.

а) Сколько очков заработал Антон в игре «Цирк»? Отметь ответ ☒

7 ☐ 2 ☐ 3 ☐ 4 ☐

б) Кто заработал в игре «Космос» столько же очков, сколько Вера? Отметь ответ ☒

Лена ☐ Антон ☐ Вера ☐ Стёпа ☐

в) Сколько всего очков заработали мальчики в игре «Космос»?

Ответ: ☐☐☐☐☐☐☐☐☐☐☐☐☐☐☐

(14) К обеду бабушка сорвала 4 морковки, помидор, 2 яблока и 3 огурца. Сколько штук овощей сорвала бабушка?

Ответ: ☐☐☐☐☐☐☐☐☐☐☐☐☐☐☐

Запиши решение:

☐☐☐☐☐☐☐☐☐☐☐☐☐☐☐